Фамилия, имя _____

школа _____, **класс** _____

ВАРИАНТ № 1

Прочитай текст.

Юный друг! Музыкальный театр в городе Краснодаре приглашает на спектакль. Трогательная история Ганса Христиана Андерсена расскажет о любви оловянного солдатика к бумажной танцовщице. Автор написал эту сказку после того, как один маленький мальчик подарил ему свою любимую игрушку – солдатика.

Музыку к спектаклю сочинил русский композитор Андрей Петров. Нежные звуки помогают зрителям понять историю о большом сердце маленького оловянного солдатика. Балерина и оловянный солдатик учат дружить, любить, прощать.

Это любимый спектакль зрителей.

В мае представления будут проходить ежедневно. Цена билета для взрослого – 70 рублей, детского билета – 30 рублей.

1. Отметь знаком «Х».

☐ это поздравление ☐ это инструкция ☐ это объявление

2. Выпиши из 8-го предложения имя существительное неодушевленное. Укажи число и род.

Ответ: _____

3. Кто сочинил музыку к спектаклю? Выпиши предложение из текста.

Ответ: _____

_____

4. Заполни таблицу словами из текста. Составь словосочетания.

имя прилагательное	имя существительное
волшебная	история
музыкальный	
	звуки
любимый	

5. Подчеркни однокоренные слова. Разбери по составу однокоренное слово имя прилагательное.
Столики, стулья, играть, настольная, столяр.

Ответ: _____

6. Реши задачу.

Продолжительность спектакля в театре – 2 часа 15 минут. После спектакля артисты 25 минут играли с детьми. Сколько всего времени дети были в театре?

Запиши решение и ответ.

Ответ: ☐ час ☐☐ мин

7. Реши задачи.

7 (1) В театр мама купила 4 билета для взрослых и 5 детских билетов. Сколько всего рублей мама заплатила?
Цена билета указана в объявлении.

Ответ: _____

7 (2) В зале театра 110 мест. На спектакль пришли 40 детей и столько же взрослых. Сколько свободных мест останется в зале?

Ответ: _____

7 (3) Ученики 3 «А» класса пойдут в театр в четвёртую среду месяца. Отметь в календаре знаком «Х» этот день.

МАЙ 2019					
Понедельник		6	13	20	27
Вторник		7	14	21	28
Среда	1	8	15	22	29
Четверг	2	9	16	23	30
Пятница	3	10	17	24	
Суббота	4	11	18	25	
Воскресенье	5	12	19	26	

8. Температура воздуха зависит от того, ясный день или облачный.

8 (1) Какую температуру воздуха термометр показывал в ясный майский день, а какую – в пасмурный? Запиши.

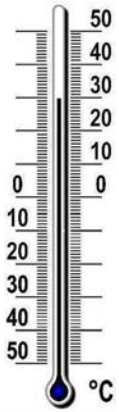

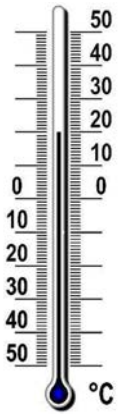

Ясный день____^{0}C Пасмурный день ____^{0}C

8 (2) Впиши по смыслу в предложение нужное слово: **выше/ниже**

1) Температура воздуха в ясный день _____ из-за большого количества солнечных лучей.

2) Температура воздуха в пасмурный день _____, потому что через облака проходят не все солнечные лучи.

9. Ученики выясняли, при каких **условия прорастают семена** фасоли.

Для опыта они взяли два блюдца, положили в них ватные диски, на них по 10 семян фасоли. В первое блюдце налили воды столько, чтобы она хорошо смочила ватный диск с семенами. Во второе блюдце воду не наливали. Оба блюдца с семенами поставили на подоконник.

9 (1) Сравни условия прорастания семян фасоли. Подчеркни в каждой строке одно из выделенных слов.

Освещённость семян: **одинаковая / различная**

Увлажнение семян: **одинаковое / различное**

9 (2) Влияние какого условия выясняли ребята? **Выбери верный ответ.**

1	Необходим ли для прорастания семян фасоли солнечный свет?
2	Необходима ли для прорастания семян фасоли вода?

Ответ: _____

10. На метеостанции ведутся постоянные наблюдения за погодой. В таблице данные о погоде в Краснодаре за первые пять дней марта 2019 года.

число	**День**			
	температура	**облачность**	**явления**	**ветер**
1	**+5**			**ЮЗ**
2	**+2**			**СЗ**
3	**+4**			**ЮЗ**
4	**+8**			**ЮЗ**
5	**+14**			**ЮЗ**

Рассмотри данные таблицы. Впиши по смыслу в предложение нужную цифру.

1) Укажи, какого числа дул северо-западный ветер: ____ марта.

2) Самым тёплым был день ____ марта.

Фамилия, имя _____

школа _____, **класс** _____

ВАРИАНТ № 2

Прочитай текст.

Юный друг! Новый театр кукол в городе Краснодаре приглашает на спектакль. Волшебная история Шарля Перро расскажет о юной девочке, прозванной Золушкой. Золушка живёт в сказочном королевстве в доме своего отца. Но всем здесь заправляет злая мачеха. У мачехи есть две свои дочери. Им-то и достается вся любовь и забота. Золушка должна работать на всю семью. А ей так хочется вместе со всеми попасть на королевский бал.

Музыку к известной сказке, в которой неизменно добро побеждает зло, написал русский композитор, пианист, дирижёр – Сергей Прокофьев.

В мае представления будут проходить ежедневно. Цена билета для взрослого – 70 рублей, цена детского билета – 30 рублей.

1. Отметь знаком «Х».

☐ это объявление ☐ это поздравление ☐ это инструкция

2. Выпиши из 8-го предложения имя существительное неодушевленное. Укажи число и род.

Ответ: _____

3. Где живёт Золушка? Выпиши предложение из текста.

Ответ: _____

_____

4. Заполни таблицу словами из текста. Составь словосочетания.

имя прилагательное	имя существительное
сказочное	королевство
	сказка
	театр
волшебная	

5. Подчеркни однокоренные слова. Разбери по составу однокоренное слово имя существительное.
Белить, побелка, белка, болельщик, белая.

Ответ: _____

6. Реши задачу.

Продолжительность спектакля – 2 часа 25 минут. После спектакля дети 20 минут читали артистам стихи. Сколько всего времени дети были в театре?

Запиши решение и ответ.

Ответ: ☐ час ☐☐ мин

7. Реши задачи.

7 (1) В театр мама купила 7 билетов для взрослых и 6 детских билетов.

Сколько всего рублей мама заплатила?

Цена билета указана в объявлении.

Ответ: _____

7 (2) В зале театра 120 мест. На спектакль пришли дети. Мальчиков 45, а девочек 65. Сколько свободных мест останется в зале?

Ответ: _____

7 (3) Ученики 3 «Б» класса в театр пойдут в четвёртую субботу месяца. Отметь в календаре знаком «Х» этот день.

МАЙ 2019					
Понедельник		6	13	20	27
Вторник		7	14	21	28
Среда	1	8	15	22	29
Четверг	2	9	16	23	30
Пятница	3	10	17	24	
Суббота	4	11	18	25	
Воскресенье	5	12	19	26	

8. Весной температура почвы сильно влияет на рост и развитие раннецветущих растений.

8 (1) Какую температуру почвы показывает термометр на южной стороне холма, а какую – на северной? Запиши.

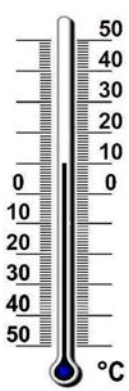



Южная сторона____^{0}C Северная сторона ____^{0}C

8 (2) Впиши по смыслу в предложение нужное слово: **больше/меньше**

1) На южной стороне холма почва _____ нагревается солнцем.

2) На северной стороне холма почва _____ нагревается солнцем.

9. Ученики 3-го класса выясняли **условия прорастания семян** фасоли.

Для того чтобы выяснить, влияет ли освещённость на прорастание семян они взяли два блюдца, положили в них на влажные ватные диски по 10 семян фасоли. Первое блюдце поставили на подоконник, а второе – в рядом стоящий шкаф. Следили, чтобы ватные диски оставались влажными. Через три дня наблюдали, что у семян, находившихся на подоконнике и в шкафу, появились корешки.

9 (1) Сравни результат проращивания семян фасоли в разных условиях. Впиши по смыслу в предложение нужное слово: **проросли/не проросли**

В блюдце на подоконнике (хорошее освещение) семена _____.

В блюдце в шкафу (плохое освещение) семена _____.

9 (2) Какой вывод по результатам опыта можно сделать**? Выбери верный ответ.**

1	Освещённость имеет большое значение для прорастания семян.
2	На прорастание семян освещённость не влияет.

Ответ: _____

10. На метеостанции ведутся постоянные наблюдения за погодой. В таблице данные о погоде в Краснодаре с шестого по десятое марта 2019 года.

число	**День**			
	температура	**облачность**	**явления**	**ветер**
6	**+8**			**З**
7	**+12**			**ЮВ**
8	**+13**			**ЮЗ**
9	**+18**			**ЮЗ**
10	**+13**			**ЮЗ**

Рассмотри данные таблицы. Впиши по смыслу в предложение нужную цифру.

1) Укажи, какая температура была в день 8 марта: _____ **^{0} С.**

2) Пасмурным, но без дождя был день _____ марта.

Фамилия, имя _____

школа _____, **класс** _____

ВАРИАНТ № 3

Прочитай текст.

Юный друг! Кукольный театр в Краснодаре приглашает на поучительный спектакль «Брысь!». Художник Елена Мацкевич создала больших и красивых кукол– героев спектакля. Русский композитор Валентин Дёмин сочинил изумительную музыку.

Однажды в новогоднюю ночь Фунтик и Киса оказались на улице. Там с нашими героями произошло много бед и несчастий. Беззащитным котикам помогла добрая девочка Анфиса.

Правдивая история Фунтика и Кисы рассказывает о счастье, печали и верности. Ведь животные – это удивительные существа, которые способны любить и быть преданными.

Кукольный театр ждёт вас, ребята и взрослые!

В мае представления будут проходить ежедневно. Цена взрослого билета – 80 рублей, детского билета – 30 рублей.

1. Отметь знаком «Х».

☐ это объявление ☐ это инструкция ☐ это поздравление

2. Выпиши из 10-го предложения имя существительное неодушевленное. Укажи число и род.

Ответ: _____

3. Кто сочинил музыку к спектаклю? Выпиши предложение из текста.

Ответ: _____

_____

4. Заполни таблицу словами из текста. Составь словосочетания.

имя прилагательное	имя существительное
кукольный	театр
новогодняя	
	история
русский	

5. Подчеркни однокоренные слова. Разбери по составу однокоренное слово имя прилагательное.

Ходить, входная, забежать, ходунки, хор.

Ответ: _____

6. Реши задачу.

Продолжительность спектакля в театре – 1 час 25 минут. После спектакля артисты 15 минут показывали зрителям фокусы. Сколько всего времени дети были в театре?

Запиши решение и ответ.

Ответ: ☐ час ☐☐ мин

7. Реши задачи.

7 (1) В театр мама купила 3 билета для взрослых и 6 детских билетов. Сколько всего рублей мама заплатила?
Цена билета указана в объявлении.

Ответ: _____

7 (2) В зале театра 110 мест. На спектакль пришли 45 детей и столько же взрослых. Сколько свободных мест останется в зале?

Ответ: _____

7 (3) Ученики 3 «В» класса пойдут в театр в четвёртую пятницу месяца. Отметь в календаре знаком «Х» этот день.

МАЙ 2019					
Понедельник		6	13	20	27
Вторник		7	14	21	28
Среда	1	8	15	22	29
Четверг	2	9	16	23	30
Пятница	3	10	17	24	
Суббота	4	11	18	25	
Воскресенье	5	12	19	26	

8. Температура воздуха днём и ночью отличается.

8 (1) Какую температуру воздуха показывал термометр днём, а какую – ночью? Запиши.

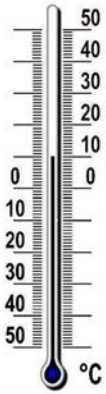

День ____^{0}C Ночь ____^{0}C

8 (2) Впиши по смыслу в предложение нужное слово: **выше/ниже**

1) Температура воздуха днём _____, потому что он нагревается солнечными лучами.

2) Ночью на небосводе нет солнца, поэтому температура _____.

9. Ученики 3-го класса выясняли **условия прорастания семян** фасоли.

Для опыта они взяли два блюдца, положили в них на влажные ватные диски по 10 семян фасоли. Одно блюдце поставили на подоконник, а второе – в рядом стоящий шкаф. Следили, чтобы ватные диски оставались влажными.

9 (1) Сравни условия прорастания семян фасоли. Подчеркни в каждой строке одно из выделенных слов.

Увлажнение семян: **одинаковое / различное**

Освещённость семян: **одинаковая / различная**

9 (2) Что выясняли этим опытом ребята? **Выбери верный ответ.**

1	Необходима ли для прорастания семян хорошая освещённость?
2	Необходима ли для прорастания семян влага?

Ответ: _____

10. На метеостанции ведутся постоянные наблюдения за погодой. В таблице данные о погоде в Краснодаре за первые пять дней марта 2019 года.

число	**День**			
	температура	**облачность**	**явления**	**ветер**
1	**+5**			**ЮЗ**
2	**+2**			**СЗ**
3	**+4**			**ЮЗ**
4	**+8**			**ЮЗ**
5	**+14**			**ЮЗ**

Рассмотри данные таблицы. Впиши по смыслу в предложение нужную цифру.

1) Укажи, какого числа было ясно, 14 градусов тепла: _____ марта.

2) Самым прохладным был день _____ марта.

Фамилия, имя _____

школа _____, **класс** _____

ВАРИАНТ № 4

Прочитай текст.

Юный друг! Приглашаем тебя в филармонию имени Геннадия Пономаренко в городе Краснодаре. Поучительная «Сказка об Аладдине и волшебной лампе» ждёт школьников. Оркестр и дирижёр Георгий Гаркалин порадуют зрителей. Красивая мелодия удивит вас.

Капризная принцесса Будур живёт в прекрасном замке. Простой парень Аладдин нашел ключ к сердцу принцессы. Чудесным образом юноша оказался с волшебной лампой. В ней живёт Джинн. Завладеть лампой мечтает коварный Визирь. Герои сказки мешают плану злодея. Хотите узнать, как закончится история?

Приглашаем в театр!

В мае представления будут проходить ежедневно. Цена билета для взрослого – 60 рублей, детского билета – 30 рублей.

1. Отметь знаком «Х».

☐ это объявление ☐ это поздравление ☐ это инструкция

2. Выпиши из 8-го предложения имя существительное неодушевленное. Укажи число и род.

Ответ: _____

3. Выпиши из текста предложение о принцессе.

Ответ: _____

_____

4. Заполни таблицу словами из текста. Составь словосочетания.

имя прилагательное	имя существительное
капризная	принцесса
	Визирь
	лампа
простой	

5. Подчеркни однокоренные слова. Разбери по составу однокоренное слово имя существительное.
Дружить, подружки, товарищи, дружеский, школьник

Ответ: _____

6. Реши задачу.

Продолжительность спектакля в театре – 2 часа 35 минут. После спектакля артисты 15 минут играли с детьми. Сколько всего времени дети были в театре?

Запиши решение и ответ.

Ответ: ☐ час ☐☐ мин

7. Реши задачи.

7 (1) В театр мама купила 6 билетов для взрослых и 9 детских билетов.

Сколько всего рублей мама заплатила?

Цена билета указана в объявлении.

Ответ: _____

7 (2) В зале театра 120 мест. На спектакль пришли дети. Мальчиков 55, а девочек 60. Сколько свободных мест останется в зале?

Ответ: _____

7 (3) Ученики 3 «Г» класса пойдут в театр в третью субботу месяца. Отметь в календаре знаком «Х» этот день.

МАЙ 2019					
Понедельник		6	13	20	27
Вторник		7	14	21	28
Среда	1	8	15	22	29
Четверг	2	9	16	23	30
Пятница	3	10	17	24	
Суббота	4	11	18	25	
Воскресенье	5	12	19	26	

8. Зимой снежный покров защищает травянистые растения от низких температур.

8 (1) Какую температуру может показывать термометр на поверхности снежного покрова, а какую – под ним? Запиши.



На снегу ____^{0}C Под снегом ____^{0}C

8 (2) Впиши по смыслу в предложение нужное слово: **выше/ниже**
Под снежным покровом температура _____, потому что воздух между снежинками препятствует проникновению холода к растениям.

9. Ученики выясняли, при каких **условия прорастают семена** фасоли.

Для того чтобы выяснить, влияет ли увлажнение на прорастание семян они взяли два блюдца, положили в них ватные диски, на них по 10 семян фасоли. В первое блюдце налили воды столько, чтобы она хорошо смочила ватный диск. Во второе блюдце воду не наливали. Оба блюдца с семенами поставили на подоконник. Через три дня наблюдали, что у семян в первом блюдце появились корешки.

9 (1) Сравни результат проращивания семян фасоли в разных условиях. Впиши по смыслу в предложение нужное слово: **проросли/не проросли**

В блюдце на влажном ватном диске семена _____.

В блюдце на сухом ватном диске семена _____.

9 (2) Какой вывод по результатам опыта можно сделать? **Выбери верный ответ.**

1	Влага имеет большое значение для прорастания семян.
2	На прорастание семян увлажнение не влияет.

Ответ: _____

10. На метеостанции ведутся постоянные наблюдения за погодой. В таблицу занесены данные о погоде в Краснодаре с шестого по десятое марта 2019 года.

число	**День**			
	температура	**облачность**	**явления**	**ветер**
6	**+8**			**З**
7	**+12**			**ЮВ**
8	**+13**			**ЮЗ**
9	**+18**			**ЮЗ**
10	**+13**			**ЮЗ**

Рассмотри данные таблицы. Впиши по смыслу в предложение нужную цифру.

1) Укажи, какого числа был дождь и дул западный ветер: ____ марта.

2) Самым тёплым был день ____ марта.